LA DECOUVERTE D'AUTRES MONDES ANCIENS :
LA CHINE DES HAN

(HISTOIRE)

1. Complète la frise à l'aide de la page 159 :

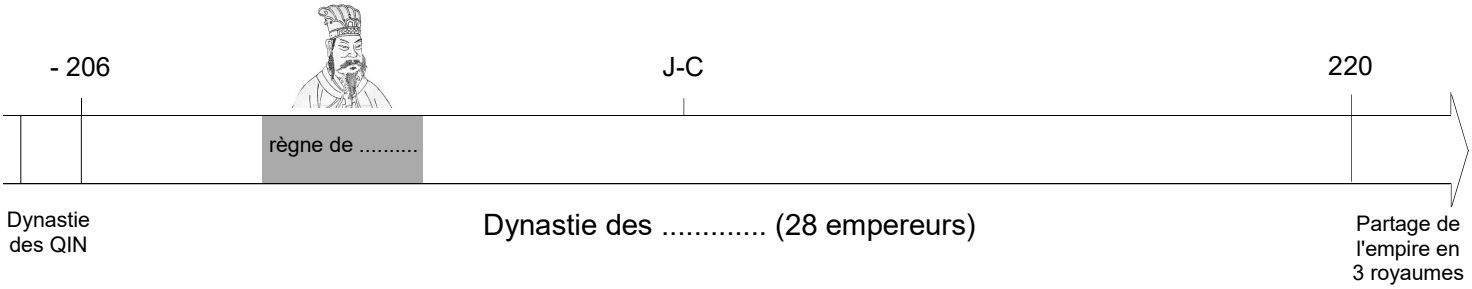

2. Combien d'années les empereurs de la dynastie des Han ont-ils régné ? Choisis la bonne opération :

☐ 220 - 206 = 14 ans ☐ 206 + 220 = 426 ans ☐ 206 x 220 = 43 320 ans

3. Inscris le nom des 2 océans et colorie l'Empire des Han de la couleur de ton choix (aide-toi de la page 159 pour le coloriage). Colorie la légende.

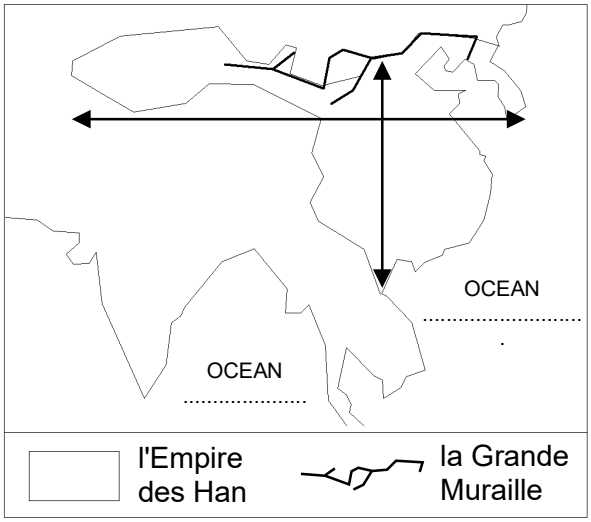

4. Mesure sur la carte la longueur des flèches :

↔ = ... cm ↕ = ... cm

Sachant qu'1 cm représente 700 km, sur combien de kilomètres s'étend l'Empire des Han ?

- d'Est en Ouest : ..... km - du Nord au Sud : ..... km

5. D'après la carte, qu'est-ce qui protège l'Empire d'envahisseurs venant du Nord ? .....

.....

6. Aide-toi du document 1 p.162 pour identifier les inventions chinoises ci-dessous :

.....



....

....

7. Quelle expression désigne les 7000 km de routes qui relient la Chine à la Méditerranée ? (p.159)

.....

8. Quels animaux sont utilisés pour le transport des marchandises ? (document 5 p.161) .....

.....

9. Quelles sont les marchandises exportées par la Chine ? (document 2 p.160) .....

.....