Exercice d'HISTOIRE du mardi 7 avril. Il s'agit de révisions sur LA VIE DANS LES CAMPAGNES DE L'OCCIDENT MEDIEVAL. Prendre le temps de relire les pages du cahier consacrées à ce chapitre avant de commencer. **Compléter la réponse ou répondre à chaque question par une phrase.**

1. Quand apparaissent le village et la seigneurie ? (frise p.71)
Les premiers villages apparaissent au ..... siècle et les premières seigneuries naissent au ..... siècle.

2. Que font les hommes pour augmenter la taille des terres cultivées ? (2 p.71) .....
.....

3. Quelles sont les innovations techniques qui aident au développement des campagnes ? (3 p.75)
- La ..... pour labourer la terre.
- La ..... pour couper les tiges des céréales.
- Le ..... pour battre séparer les grains des tiges.
- Le ..... pour moudre les grains.

4. Vérifie que tu comprends bien le document 4 p.75 en complétant la série de schémas ci-dessous :

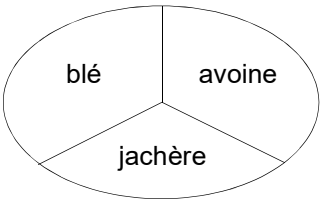

1ère année

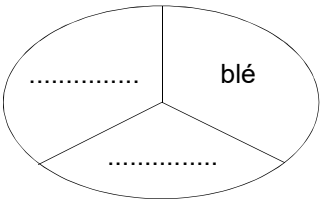

2e année

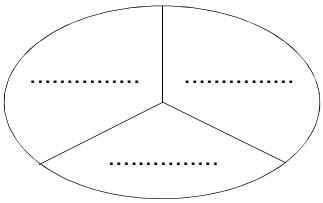

3e année

Comment s'appelle cette rotation des cultures sur 3 ans ? .....
.....
Recherche et recopie la définition de la jachère : .....
.....

5. Présente le document 3 p.71 : Le document est un ..... qui nous renseigne sur .....

6. Complète ces phrases à l'aide du document 3 p.71 :
- Vers 900, la population européenne était de 23,5 ..... d'habitants.
- En 1000, la population européenne était de ..... d'habitants.
- En ....., la population européenne était de 69 millions d'habitants.

7. Comment a évolué la population européenne de 900 à 1350 ?
La population européenne a ..... de 900 à 1250. Elle a ..... de 1250 à 1350.

8. Pourquoi la population diminue-t'elle à partir du XIVe siècle ? Aide-toi de la frise p.71 pour répondre :
.....